動的システムの解析と制御レポート#3(2019.10.4 出題)

学籍番号: _____ 氏名: _____

提出〆切:10 月 9 日 (水)17:00（厳守)、提出場所:機械建設 1 号棟 405 室（小林居室）のドアポスト

注意：この用紙に直接記入すること（別紙に記入しないこと）

課題 3 下図に示すフィードバック制御系を考える。

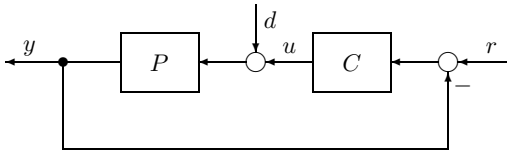

ただし、 $P(s) = \dfrac{4}{s^2 + s - 2}$ であるとする。以下の (1)〜(3) の問に答えよ。

(1) $C(s) = \dfrac{s+2}{s+3}$ とする。特性多項式 $\phi(s)$ を求め、内部安定性を判定せよ。

(2) $C(s) = \frac{1}{4}$ とする。このとき、ナイキスト軌跡は下図の実線のようになる。図中に $\omega = 0, 1, \infty$ に対応する三点を示せ。また、制御系の安定性を判定せよ。

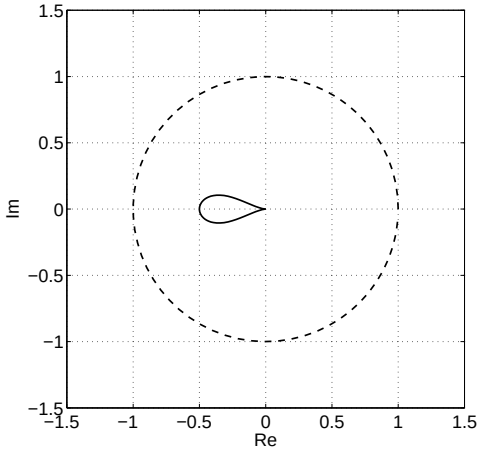
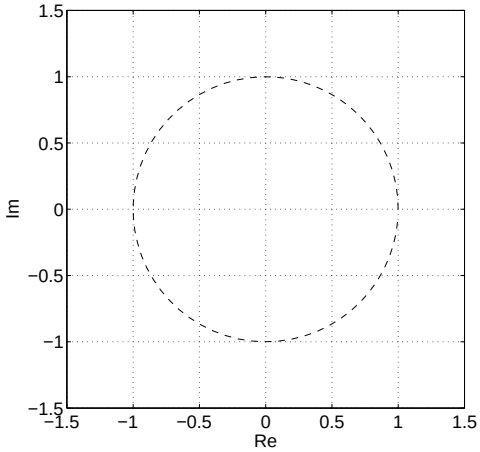
(3) $C(s) = \frac{3}{4}$ とする。このときのナイキスト軌跡を下図に描け。また、制御系の安定性を判定せよ。